선택과목

경 제

71. 다음은 현행 교과서 차례의 일부이다.

Ⅰ. 경제 생활의 이해	
1. 경제 문제와 선택	2. 경제 생활과 경제 체제
3. 경제 활동의 측정과 경제 정보	4. 바람직한 경제 사회
Ⅱ. 시장과 경제 활동	
1. 가계와 경제 활동	2. 기업과 경제 활동
3. 시장과 가격 결정	4. 시장의 형태와 특성
Ⅲ. 시장 경제와 정부	
1. 정부의 경제적 역할	2. 조세와 예산
3. 재정 정책	4. 정부의 규제와 공기업 활동
Ⅳ. 현대 국민 경제의 이해	
1. 국민 경제의 흐름과 변화	2. 경기 순환과 경제 성장
3. 화폐와 금융	4. 국민 경제와 국제 경제
Ⅴ. 현대 사회의 경제 문제	
1. 인플레이션과 물가 안정	2. 노동 시장과 산업 평화
3. 소득 분배와 사회 보장	4. 기술 개발과 경쟁력
5. 환경 보호	6. 국제 협력의 증진

교사는 대단원 학습이 끝날 때마다 대단원의 학습 내용과 관련된 수행 평가 과제를 부여한다. 단원별로 부여된 과제 중 적절하지 <u>않은</u> 것은? [2점]

① Ⅰ단원 : 취직 대신 대학 진학으로 인해 내가 얻는 것과 잃는 것을 표로 작성하기
② Ⅱ단원 : '과소비와 합리적 소비'라는 주제의 논술문 쓰기
③ Ⅲ단원 : 과거 10년간 법인세율과 정부의 법인세 수입 간의 관계 조사하기
④ Ⅳ단원 : 소비자 보호법이 적용된 사건의 내용과 판례 수집하기
⑤ Ⅴ단원 : 우리 나라의 실업률 산정 방식을 조사하기

72. 그림은 신문 기사와 함께 제시된 통계 자료이다. 이 신문 기사의 제목으로 적절한 것을 <보기>에서 모두 고른 것은?

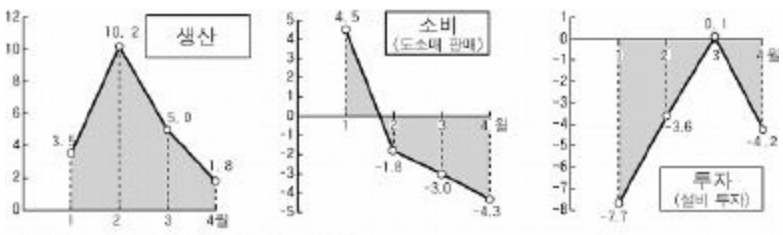

<보 기>
ㄱ. 성장 기반 잠식 우려
ㄴ. 재정 확장 정책의 필요성 증대
ㄷ. 부동산 투기 가능성 고개 들어
ㄹ. 점점 거세지는 금리 인상 요구

① ㄱ, ㄴ ② ㄱ, ㄷ ③ ㄱ, ㄹ ④ ㄴ, ㄷ ⑤ ㄷ, ㄹ

73. 갑의 견해에 입각한 경제 문제의 해결 방식을 강조하고 있는 신문 기사는?

갑 : 각 개인이 자신의 이익을 추구할 때 시장 가격이 '보이지 않는 손'과 같은 역할을 수행함으로써, 사회가 조화를 이루면서 발전한다.
을 : 각 경제 주체가 합리적으로 행동한다 하더라도 전체로서는 반드시 바람직스러운 결과를 가져오는 것은 아니며, 시장 기구의 자동 조절 장치가 작동하는 데 한계가 있다.

① 기초 생활 보장제의 혜택을 받지 못하는 차상위 계층에 의료 보호와 같은 부분적인 지원이 필요하다.
② 내년에 위축될 것으로 보이는 내수를 경제에 큰 충격을 주지 않는 수준에서 진작시키는 게 가장 중요하다.
③ 경기를 부양하려면 시중에 돈을 풀어야 하고, 이를 위해서는 저금리를 지속하거나 재정을 서둘러 집행해야 한다.
④ 정부의 정책 방향은 기업이 '어떤 것만 할 수 있다'에서 '특정 사안을 제외하면 뭐든 할 수 있다'로 바뀌어야 한다.
⑤ 정부와 지방 자치 단체가 도시의 실버 계층을 농촌 지역으로 유치하는 정책은 각종 농촌 문제를 풀어나가는 하나의 방안이 될 수 있다.

74. 다음 국제 경제 환경 변화의 결과로 나타나는 현상을 <보기>에서 모두 고른 것은?

○ 세계 무역 기구(WTO)의 출범으로 자유 무역이 확대되고 있다.
○ 우리 나라 원화의 대미 달러 환율이 하락하고 있다.

<보 기>
ㄱ. 농산물 시장 개방 압력이 커진다.
ㄴ. 수입품 가격이 높아져 국내 물가가 오른다.
ㄷ. 달러에 대한 우리 나라 원화의 가치가 상승한다.
ㄹ. 수출 기업에 대한 정부 보조금 지급이 늘어난다.

① ㄱ, ㄴ ② ㄱ, ㄷ ③ ㄱ, ㄹ ④ ㄴ, ㄷ ⑤ ㄷ, ㄹ

75. 정부는 다음과 같이 승용차 특별 소비세를 인하하였다. 이러한 조치의 영향을 바르게 지적한 것을 <보기>에서 모두 고른 것은? [2점]

배기량	기존 세율(%)	개정 세율(%)
1500cc 이하	7	5
2000cc 이하	10	
2000cc 초과	14	10

<보 기>
ㄱ. 국내에서 승용차 판매량이 늘어날 것이다.
ㄴ. 해외 시장에서 국산 승용차의 가격 경쟁력은 낮아진다.
ㄷ. 2000cc 승용차의 대당 세금 감소액은 2500cc 승용차보다 크다.
ㄹ. 정부의 특별 소비세 수입은 승용차 수요의 가격 탄력성에 따라 달라진다.

① ㄱ, ㄴ ② ㄱ, ㄷ ③ ㄱ, ㄹ ④ ㄴ, ㄷ ⑤ ㄷ, ㄹ

76. 그림은 A국의 실질 국내 총생산과 실질 국민 총생산을 비교한 것이다. 그림을 바탕으로 한 옳은 추론을 <보기>에서 모두 고른 것은? [2점]

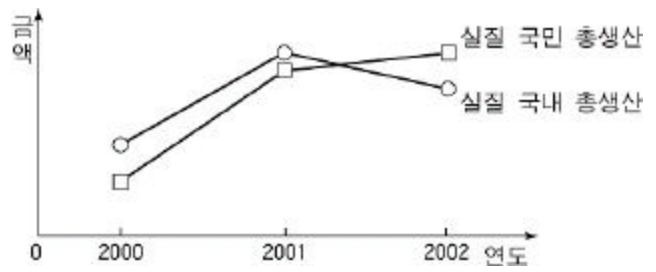

<보 기>

ㄱ. 2001년의 분배는 2000년에 비해 평등해졌다.
ㄴ. 2002년의 물가 수준은 2001년에 비해 하락하였다.
ㄷ. 2002년의 국내 경제 활동은 2001년에 비해 위축되었다.
ㄹ. 2002년에 'A국 국민이 해외에서 벌어들인 소득'이 '외국인이 A국에서 벌어들인 소득'보다 컸다.

① ㄱ, ㄴ ② ㄱ, ㄷ ③ ㄴ, ㄷ ④ ㄴ, ㄹ ⑤ ㄷ, ㄹ

77. 경제 원칙에 따라 행동하는 사람들은 이동 전화 요금을 비교하여 자신에게 가장 유리한 회사를 선택한다. 이 때 선택이 잘못된 것은?(단, 통화 품질 등 기타 조건은 동일함) [2점]

<이동 통신 회사들의 요금 체계>

회사명	요 금	
	월 기본료	사용료
A사	5,000원	40원/분
B사	10,000원	20원/분
C사	20,000원	없음

이용자	회사	이용자	회사
① 월 200분 통화자	A사	② 월 300분 통화자	A사
③ 월 400분 통화자	B사	④ 월 450분 통화자	B사
⑤ 월 600분 통화자	C사		

78. 그림은 어느 나라의 경기 변동 추이를 나타낸 것이다. 그림과 관련한 옳은 설명을 <보기>에서 모두 고른 것은?

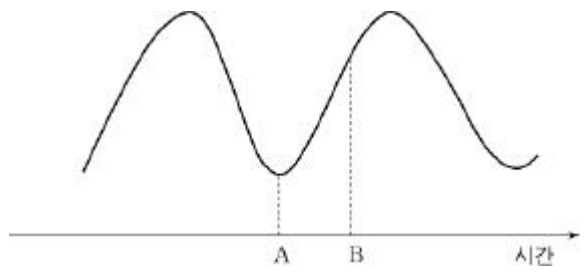

<보 기>

ㄱ. 그림은 한 나라 경제 활동의 양적 변동의 추이를 보여준다.
ㄴ. 이러한 변동은 작은 정부 하에서는 나타나지 않는다.
ㄷ. A시기에 나타날 수 있는 대표적인 경제 문제는 실업이다.
ㄹ. B시기에는 스태그플레이션이 발생할 가능성이 높다.

① ㄱ, ㄴ ② ㄱ, ㄷ ③ ㄱ, ㄹ ④ ㄴ, ㄷ ⑤ ㄷ, ㄹ

79. 그림은 배 시장에서 공급 곡선이 S에서 S'로 이동한 모습이다. 그림에 대한 옳은 해석을 <보기>에서 모두 고른 것은?

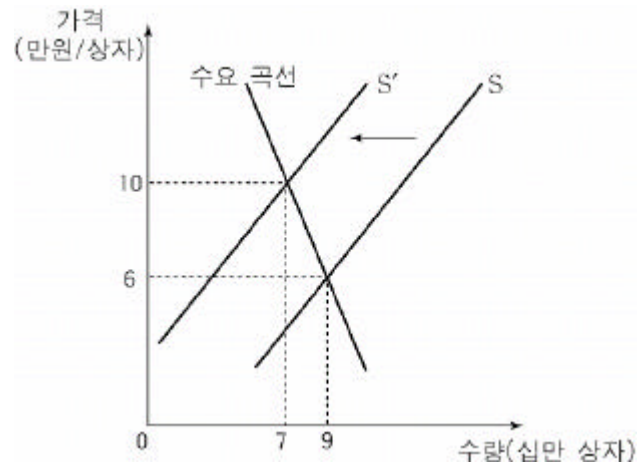

<보 기>

ㄱ. 배의 총 판매 수입이 감소한다.
ㄴ. 배 수요의 가격 탄력성이 1보다 작다.
ㄷ. 배 농사가 흉작이 되면, 공급 곡선이 이처럼 이동한다.
ㄹ. 소비자들의 소득이 증가하면, 공급 곡선이 이처럼 이동한다.

① ㄱ, ㄴ ② ㄱ, ㄷ ③ ㄱ, ㄹ ④ ㄴ, ㄷ ⑤ ㄷ, ㄹ

80. 표는 어떤 나라의 소득 분배에 관한 자료이다. 자료들을 옳게 분석한 내용을 <보기>에서 모두 고른 것은? [2점]

구분 \ 연도		1999년	2000년	2001년	2002년
소득 계층 (%)	상류층	22.8	21.8	22.9	23.5
	중산층*	67.5	68.5	65.3	64.6
	빈곤층	9.7	9.6	11.8	11.9
십분위 분배율**		0.57	0.59	0.51	0.49

* 중산층 : 전체 가구를 소득 크기에 따라 일렬로 세웠을 때, 한 가운데 위치하는 가구 소득의 50% 150%에 해당하는 소득을 갖는 가구.

** 십분위 분배율 = $\frac{\text{하위 40\% 계층의 소득}}{\text{상위 20\% 계층의 소득}}$

<보 기>

ㄱ. 빈곤층 비율이 높아질수록 십분위 분배율도 높아진다.
ㄴ. 2002년의 소득 분배는 그 이전에 비해 더 불평등하게 되었다.
ㄷ. 십분위 분배율 기준으로 볼 때, 중산층의 비율이 높아질수록 소득 분배가 더 평등해진다.

① ㄱ ② ㄴ ③ ㄷ ④ ㄱ, ㄴ ⑤ ㄴ, ㄷ

* 확인 사항

○ 문제지와 답안지의 해당란에 필요한 내용을 정확히 기입(표기)했는지 확인하시오.
○ 문제지와 답안지를 함께 제출합니다. 답안지는 오른쪽에 문제지는 왼쪽에 놓으시오.